EVALUACIÓN DE BACHILLERATO
PARA EL ACCESO A LA UNIVERSIDAD (EBAU)
FASE DE OPCIÓN
CURSO 2020–2021

MATERIA: GEOGRAFÍA		
	Convocatoria:	**J U L I O**

INSTRUCCIONES: El examen se organiza en dos grupos (A y B), con preguntas de cinco tipos en cada uno de ellos. Se podrán elegir preguntas del mismo tipo de cualquiera de los dos grupos hasta completar una prueba compuesta por: Ejercicio práctico 1, Ejercicio práctico 2: Paisaje, Conceptos, Pregunta teórica y Pregunta práctica. Las preguntas elegidas se anotarán en las casillas correspondientes de la hoja "Estructura de la Prueba".

GRUPO A

1) EJERCICIO PRÁCTICO 1. Se proponen dos ejercicios prácticos (uno en cada grupo). **Se deberá elegir y contestar uno de ellos**. **Puntuación: 2 puntos.** El ejercicio elegido se anotará en la casilla correspondiente de la hoja ESTRUCTURA DE LA PRUEBA.

A1.1 Lectura e interpretación del mapa topográfico. A partir del mapa que se presenta, responde las siguientes cuestiones (1 punto cada cuestión) (Total 2 puntos):

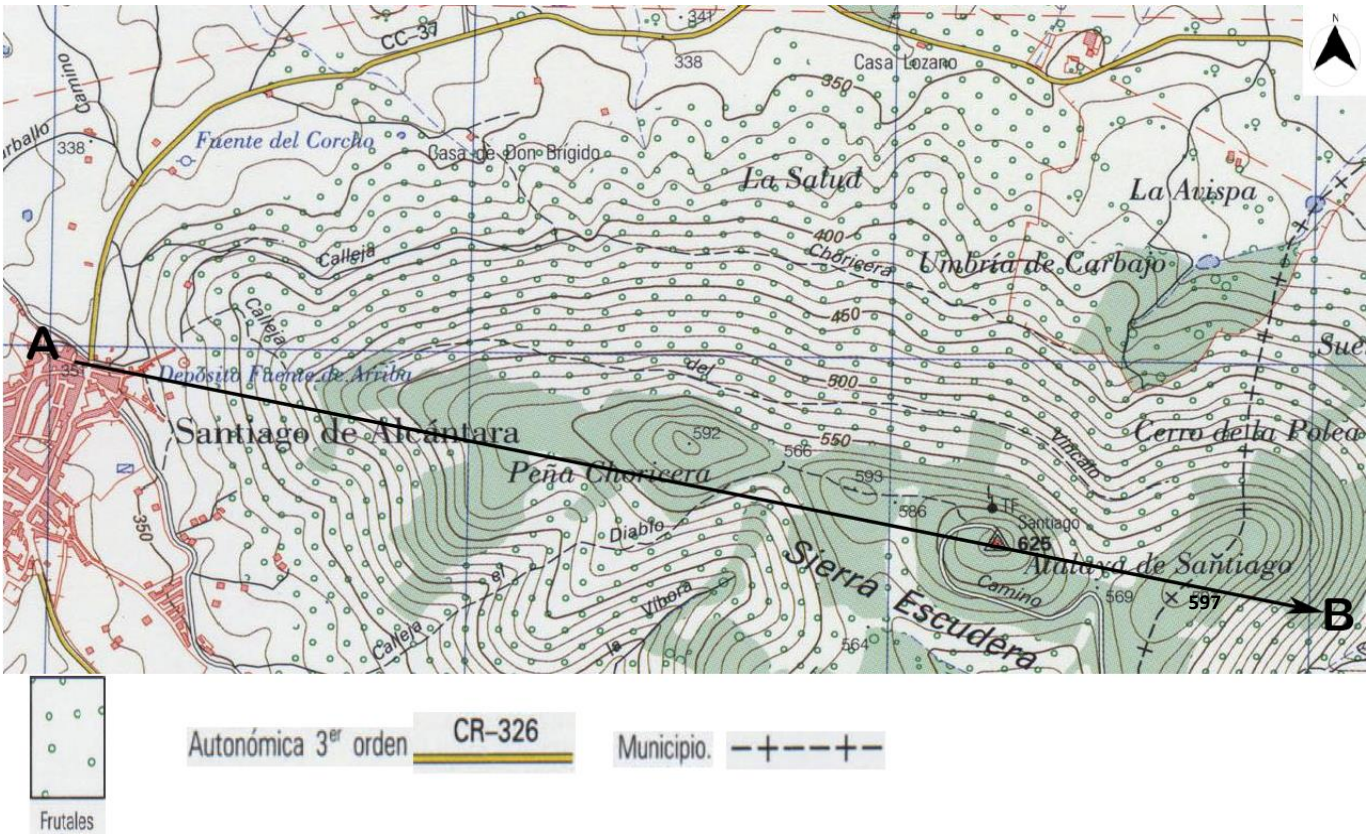

a) Describe la orografía del terreno a lo largo del recorrido señalado por la flecha entre los puntos A - B, utilizando para ello la toponimia.

b) ¿Qué dirección dominante sigues cuando te desplazas desde A hacia B? ¿Qué equidistancia hay entre las curvas de nivel o isohipsas?

2) EJERCICIO PRÁCTICO 2: PAISAJE. Se proponen dos paisajes (uno en cada grupo). **Se deberá elegir y contestar uno de ellos**. **Puntuación: 2 puntos.** El ejercicio elegido se anotará en la casilla correspondiente de la hoja ESTRUCTURA DE LA PRUEBA.

A2.1 Analiza el siguiente paisaje contestando a las dos preguntas (0,5 puntos la primera cuestión y 1,5 la segunda) (Total: **2 puntos).**



Fuente: http://www.eltime.es/isla-bonita/5280-la-sequia-pone-en-jaque-a-la-caldera-de taburiente.html

a) Clasificación, justificación y tipología del paisaje.

b) Comentario del paisaje.

3) CONCEPTOS. Se proponen ocho conceptos (cuatro en cada grupo). **Obligatoriamente**, el alumnado deberá elegir **dos conceptos del Bloque IV** y **dos conceptos del Bloque V (en total cuatro conceptos)**. **Puntuación total: 2 puntos (0,5 cada concepto).** Los conceptos elegidos se anotarán en las casillas correspondientes de la hoja ESTRUCTURA DE LA PRUEBA.

Ha de copiarse correcta e íntegramente el enunciado del concepto y la respuesta elegida (no se admitirán contestaciones abreviadas mediante letras o números). Se calificarán como erróneas las respuestas que no se ajusten a este requisito.

A3.1 Bloque V. En Canarias, la "capitalidad compartida" se refiere a que:

* Cada año va rotando por islas la capital de la Comunidad Autónoma de Canarias.
* Cada tres años se alterna la capital de la Comunidad Autónoma entre Las Palmas de Gran Canaria y Santa Cruz de Tenerife.
* Las ciudades de Las Palmas de Gran Canaria y Santa Cruz de Tenerife son las capitales de la Comunidad Autónoma de Canarias.

A3.2 Bloque V. ¿Qué es un municipio?

* Es la división administrativa más pequeña y cercana a los ciudadanos de nuestro país.
* Es la institución responsable del mantenimiento de la red insular de carreteras.
* Es una reunión de ayuntamientos próximos que se benefician de servicios mancomunados.

A3.3 Bloque IV. La ganadería extensiva:

* Está desvinculada del medio físico.
* Depende del medio físico.
* Está estabulada.

A3.4 Bloque IV. En los Polígonos industriales se sitúan, mayoritariamente, empresas pertenecientes a los sectores:

* Secundario y terciario.
* Primario y secundario.
* Primario y terciario.

4) PREGUNTA TEÓRICA. Se proponen dos preguntas de esta modalidad (una en cada grupo). **Se deberá elegir y contestar sólo una**. **Puntuación total: 2 puntos**. La pregunta teórica elegida se anotará en la casilla correspondiente de la hoja ESTRUCTURA DE LA PRUEBA.

A4.1 La terciarización de la economía española.
Criterio de evaluación: Se trata de explicar las causas del proceso de "terciarización" y la desigualdad territorial.

5) PREGUNTA PRÁCTICA. Se proponen dos preguntas de esta modalidad (una en cada grupo). **Se deberá elegir y contestar una de ellas. Puntuación: 2 puntos.** La pregunta práctica elegida se anotará en la casilla correspondiente de la hoja ESTRUCTURA DE LA PRUEBA.

A5.1 Evolución de los índices de natalidad y mortalidad en España, 1940-2019. Responde a las siguientes cuestiones (1 punto cada cuestión) (Total: 2 puntos):

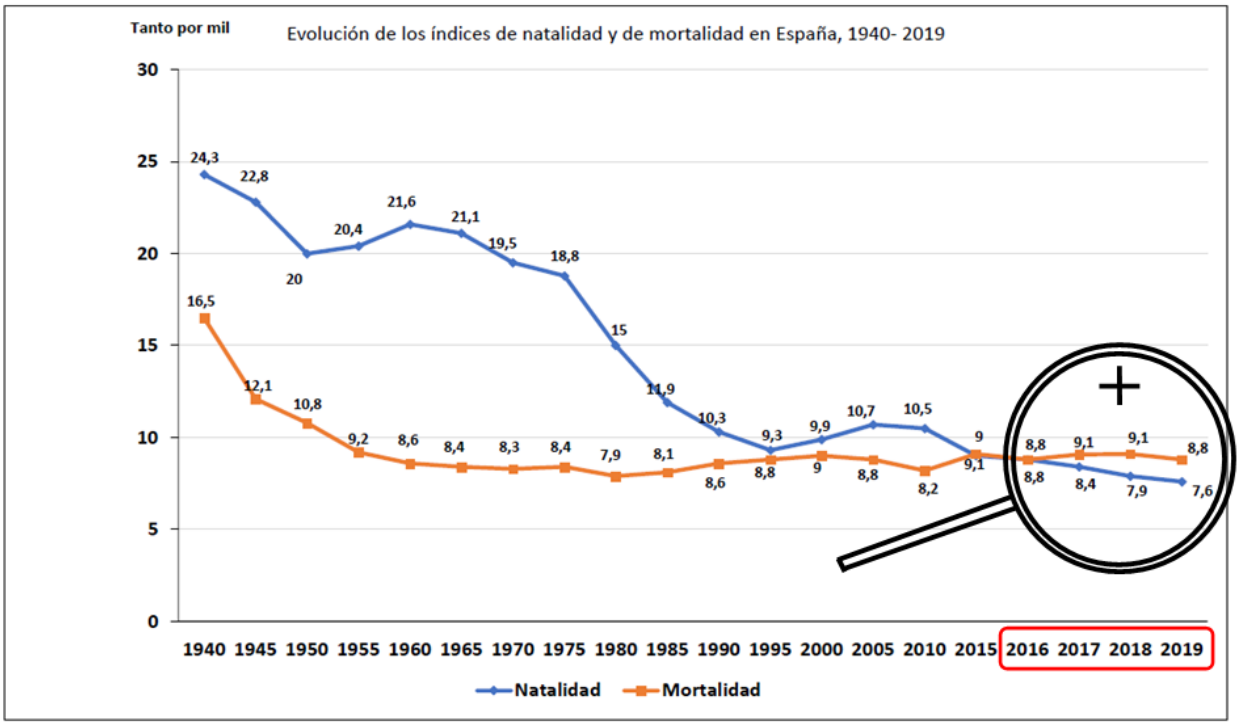

Fuente INE. Elaboración Subcomisión EBAU Geografía

a) Describe la gráfica de los índices de natalidad y de mortalidad en España entre 1940 y 2019.

b) Explica las causas de las tendencias de dichos índices y sus consecuencias en el crecimiento natural, prestando especial atención a los cambios más recientes.

EVALUACIÓN DE BACHILLERATO
PARA EL ACCESO A LA UNIVERSIDAD (EBAU)
FASE DE OPCIÓN
CURSO 2020–2021

MATERIA: GEOGRAFÍA		
	Convocatoria:	**J u l i o**

INSTRUCCIONES: El examen se organiza en dos grupos (A y B), con preguntas de cinco tipos en cada uno de ellos. Se podrán elegir preguntas del mismo tipo de cualquiera de los dos grupos hasta completar una prueba compuesta por: Ejercicio práctico 1, Ejercicio práctico 2: Paisaje, Conceptos, Pregunta teórica y Pregunta práctica. Las preguntas elegidas se anotarán en las casillas correspondientes de la hoja "Estructura de la Prueba".

GRUPO B

1) EJERCICIO PRÁCTICO 1. Se proponen 2 ejercicios prácticos (uno en cada grupo). **Se deberá elegir y contestar 1 de ellos**. **Puntuación: 2 puntos.** El ejercicio escogido se anotará en la casilla correspondiente de la hoja ESTRUCTURA DE LA PRUEBA.

B1.1 Mapa Físico: Identificación y localización de las grandes unidades de relieve (1 puntos cada cuestión) (Total: 2 puntos).

Vas a realizar un viaje por la Península Ibérica entre los puntos A y B siguiendo la dirección y el sentido de la flecha trazada en el mapa. A partir de lo indicado, contesta a las siguientes cuestiones:

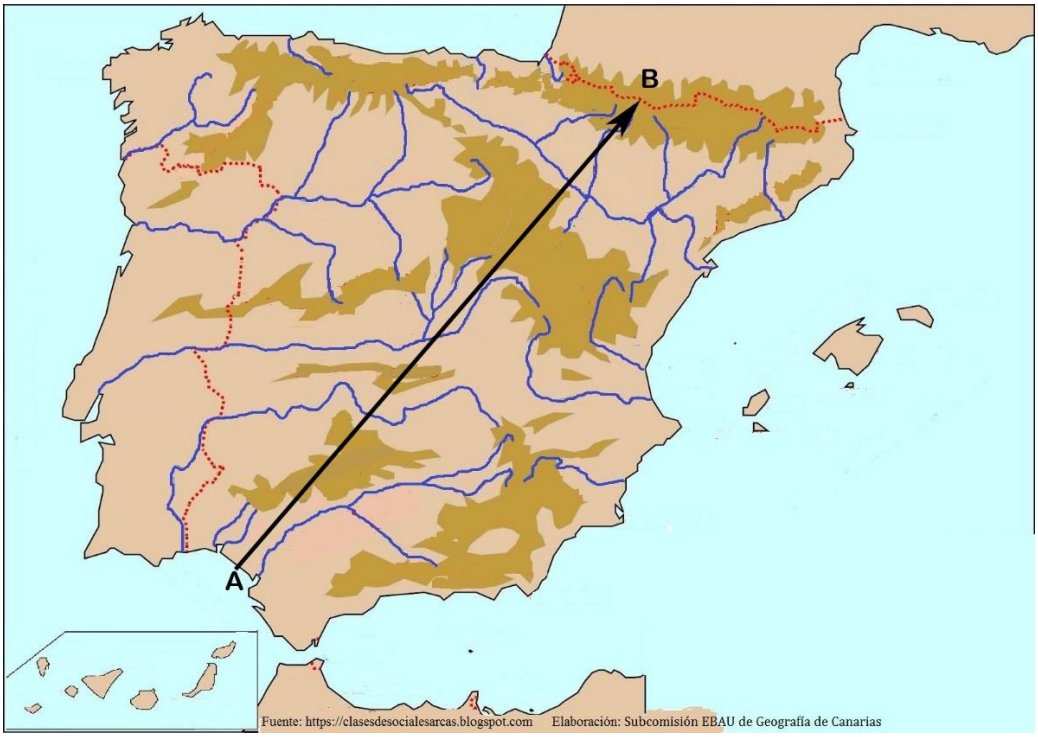

a) Escribe los nombres de los relieves montañosos (cordilleras, sistemas, montes...) atravesados por la flecha, citándolos en el orden propuesto.

b) Indica los nombres de las depresiones (cuencas hidrográficas, ríos...) atravesadas por la flecha, citándolas en el orden propuesto.

2) EJERCICIO PRÁCTICO 2: PAISAJE. Se proponen dos paisajes (uno en cada grupo). **Se deberá elegir y contestar uno de ellos**. **Puntuación: 2 puntos.** El ejercicio elegido se anotará en la casilla correspondiente de la hoja ESTRUCTURA DE LA PRUEBA.

B2.1 Analiza el siguiente paisaje contestando a las dos preguntas (0,5 puntos la primera cuestión y 1,5 la segunda) (Total: **2 puntos).**



Fuente: https://www.turismoasturias.es/descubre/naturaleza/otros-espacios/lagos/lago-enol

a) Clasificación, justificación y tipología del paisaje.

b) Comentario del paisaje.

3) CONCEPTOS. Se proponen ocho conceptos (cuatro en cada grupo). **Obligatoriamente**, el alumnado deberá elegir **dos conceptos del Bloque IV** y **dos conceptos del Bloque V (en total cuatro conceptos)**. **Puntuación total: 2 puntos (0,5 cada concepto).** Los conceptos elegidos se anotarán en las casillas correspondientes de la hoja ESTRUCTURA DE LA PRUEBA.

Ha de copiarse correcta e íntegramente el enunciado del concepto y la respuesta elegida (no se admitirán contestaciones abreviadas mediante letras o números). Se calificarán como erróneas las respuestas que no se ajusten a este requisito.

B3.1 Bloque V. El Acuerdo Schengen es:

* Un compromiso entre los países de la Unión Europea para impedir la importación de terceros países.
* La creación de un espacio en el que se suprimen las fronteras interiores entre los países firmantes y se refuerzan las fronteras exteriores.
* Un convenio suscrito por todos los Estados miembros de la U.E. para impedir la entrada de ciudadanos de otros países.

B3.2 Bloque V. Los Fondos Estructurales son:

* Un conjunto de ayudas de la Unión Europea para los países que apuestan por un desarrollo no sostenible.
* Recursos financieros de la Política Comunitaria para reducir los desequilibrios entre las regiones de la Unión Europea.
* Instrumentos financieros de la Unión Europea destinados a los Estados fundadores de la Comunidad Económica Europea.

B3.3 Bloque IV. La concentración parcelaria tiene como principal objetivo:

* Incrementar la explotación agraria de regadío.
* Vender la producción en el mercado mundial.
* Disminuir el minifundio y la dispersión de parcelas.

B3.4 Bloque IV. Los sectores industriales maduros se caracterizan por:

* Tener importantes deficiencias en su estructura empresarial.
* Consumir escasa energía.
* No necesitar una cantidad importante de mano de obra.

4) PREGUNTA TEÓRICA. Se proponen dos preguntas de esta modalidad (una en cada grupo). **Se deberá elegir y contestar sólo una**. **Puntuación total: 2 puntos**. La pregunta teórica elegida se anotará en la casilla correspondiente de la hoja ESTRUCTURA DE LA PRUEBA.

B4.1 Principales problemas del mundo rural.
Criterio de evaluación: Se trata de señalar los problemas demográficos, económicos y sociales que afectan a la agricultura en España y exponer algunas medidas para buscar alternativas y revalorizar la actividad agraria y el mundo rural.

5) PREGUNTA PRÁCTICA. Se proponen dos preguntas de esta modalidad (una en cada grupo). **Se deberá elegir y contestar una de ellas. Puntuación: 2 puntos.** La pregunta práctica elegida se anotará en la casilla correspondiente de la hoja ESTRUCTURA DE LA PRUEBA.

B5.1 Mapa sobre la jerarquía urbana en España. Responde a las siguientes cuestiones (1 punto cada cuestión) (Total: 2 puntos):

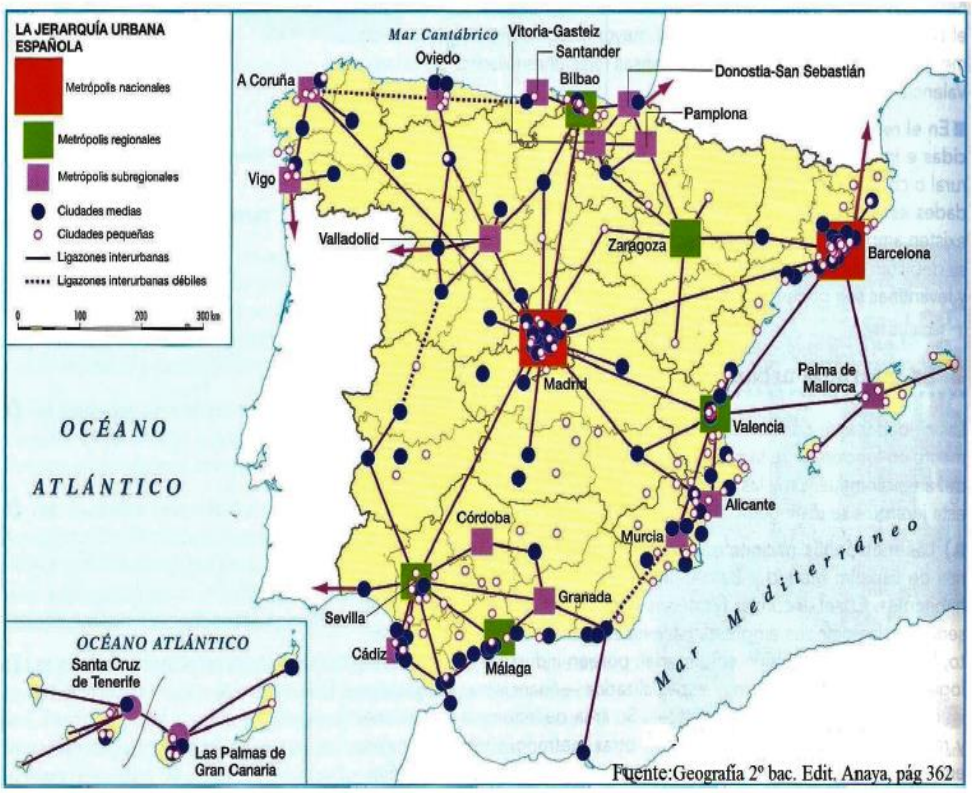

a) Describe el mapa sobre la jerarquía urbana española.

b) Explica las categorías de ciudades de la red urbana española (metrópolis nacionales, metrópolis regionales...), así como las ligazones o ejes interurbanos.