EVALUACIÓN DE BACHILLERATO
PARA EL ACCCESO A LA UNIVERSIDAD (EBAU)
FASE DE OPCIÓN
CURSO 2017–2018

MATERIA: GEOGRAFÍA	**(1)**
Convocatoria:	**J U N I O**

Instrucciones: Debes elegir una de las dos opciones, A o B, y no puedes intercambiar las preguntas de cada una de ellas. Cada opción consta de cinco preguntas valoradas con dos puntos cada una.

OPCIÓN A

1.- Conceptos clave (0,5 puntos cada uno). Contesta los CUATRO conceptos y ESCRIBE, en tu hoja de examen, sus enunciados así como la correspondiente respuesta correcta de cada uno (Total: 2 puntos).

1.1.- Los Fondos Estructurales son:
* Ayudas que concede el Fondo Monetario internacional a los estados del sur de Europa.
* Recursos financieros de la Política Comunitaria para reducir los desequilibrios entre las regiones de la Unión Europea.
* Recursos financieros de la Unión Europea destinados a los Estados fundadores de la Comunidad Económica Europea.

1.2.- La globalización es:
* Un proceso de privatización de la actividad económica que afecta a todos los sectores de la economía.
* Es un movimiento de unificación progresiva de sociedades y territorios con múltiples dimensiones.
* El desarrollo de las tecnologías de la información y comunicación para propiciar la interconexión mundial.

1.3.- Las ciudades autónomas son:
* Una división administrativa peculiar de España que gestionan los Consells Insulares de Baleares.
* Unas ciudades dependientes de la Comunidad de Andalucía.
* Entes territoriales peculiares de carácter autonómico, pero sin capacidad legislativa.

1.4.- ¿Qué es un municipio?
* Es la división administrativa más pequeña y cercana a los ciudadanos de nuestro país.
* La institución responsable del mantenimiento de la red insular de carreteras.
* Es una reunión de ayuntamientos próximos que se benefician de servicios mancomunados.

2.- Preguntas teóricas (2 puntos cada una) (Total: 4 puntos).

2.1.- El futuro de la población española.
Criterios de evaluación: Se deben señalar brevemente las tendencias más probables que pueden experimentar el movimiento natural y los movimientos migratorios.

2.2.- La terciarización de la economía española.
Criterios de evaluación: Explica las causas del proceso de "terciarización" y su desigualdad territorial.

3.- Ejercicio práctico. (1 punto cada cuestión) (Total: 2 puntos).



Fuente: http://geografiadebachillerato.wikispaces.com

Clasificación de paisajes según los elementos dominantes, respondiendo a las siguientes cuestiones:

3.1.- Clasifica el paisaje como natural o cultural (humanizado).

3.2.- Justifica la respuesta enumerando los elementos principales de uno u otro tipo que aparecen, en orden a su importancia.

4.- Pregunta Práctica (1 punto cada cuestión) (Total: 2 puntos).



Fuente: http://guiadidacticafloraieslaboral.blogspot

Pisos de la vegetación canaria. A partir del gráfico, contesta las siguientes cuestiones:

4.1.- Describe el modelo de escalonamiento de la vegetación canaria identificando los pisos que los componen y las diferencias de su distribución según las vertientes.

4.2.- Explica las características más importantes de las dos grandes formaciones forestales de Canarias (Laurisilva y Pinar).

EVALUACIÓN DE BACHILLERATO
PARA EL ACCCESO A LA UNIVERSIDAD (EBAU)
FASE DE OPCIÓN
CURSO 2017–2018

MATERIA: GEOGRAFÍA	**(1)**
Convocatoria:	**J U N I O**

Instrucciones: Debes elegir una de las dos opciones, A o B, y no puedes intercambiar las preguntas de cada una de ellas. Cada opción consta de cinco preguntas valoradas con dos puntos cada una.

OPCIÓN B

1.- Conceptos clave (0,5 puntos cada uno). Contesta los CUATRO conceptos y ESCRIBE, en tu hoja de examen, sus enunciados así como la correspondiente respuesta correcta de cada uno (Total: 2 puntos).

1.1.- El Fondo de Compensación Interterritorial tiene como finalidad:
* Corregir desequilibrios económicos y garantizar el principio de solidaridad entre las Comunidades Autónomas.
* Acabar con la disparidad entre los territorios más ricos y pobres de la Unión Europea, en relación a la riqueza media existente.
* Contribuir solidariamente al pago de la deuda externa del Estado mediante aportaciones proporcionales de todas las Comunidades Autónomas.

1.2.- La Ayuda Oficial al Desarrollo (AOD) consiste en:
* Ayudas dirigidas a países que figuran en la lista de receptores del Comité de Ayuda al Desarrollo (CAD).
* Ayudas de la Unión Europea destinadas a favorecer a los países miembros con menor desarrollo económico.
* Ayudas del Estado español para elevar el nivel económico de las Comunidades Autónomas más pobres.

1.3.- El Estado de las Autonomías reconoce:
* La capacidad de las comunidades autónomas para firmar tratados internacionales.
* La división administrativa del territorio español en pueblos y ciudades.
* La diversidad de los territorios que integran España y su capacidad de autogobierno en los asuntos de su competencia.

1.4.- Los Cabildos son:
* Entidades territoriales que agrupan a los municipios de una provincia.
* Instituciones cuyo ámbito de actuación es el provincial.
* Instituciones territoriales canarias cuyo ámbito de gestión y administración es la isla.

2.- Preguntas teóricas (2 puntos cada una) (Total: 4 puntos).

2.1.- Los problemas medioambientales de Canarias.
Criterios de evaluación: Comenta los siguientes cuatro problemas que afectan al medioambiente canario: la contaminación atmosférica, la explotación de los recursos hídricos, la deforestación y los residuos sólidos urbanos.

2.2.- Características de la industria española.
Criterios de evaluación: Tipos de industria del sector industrial español. Hay que señalar la existencia de diferentes sectores industriales así como su peso y localización.

3.- Ejercicio práctico. (1 punto cada cuestión) (Total: 2 puntos).

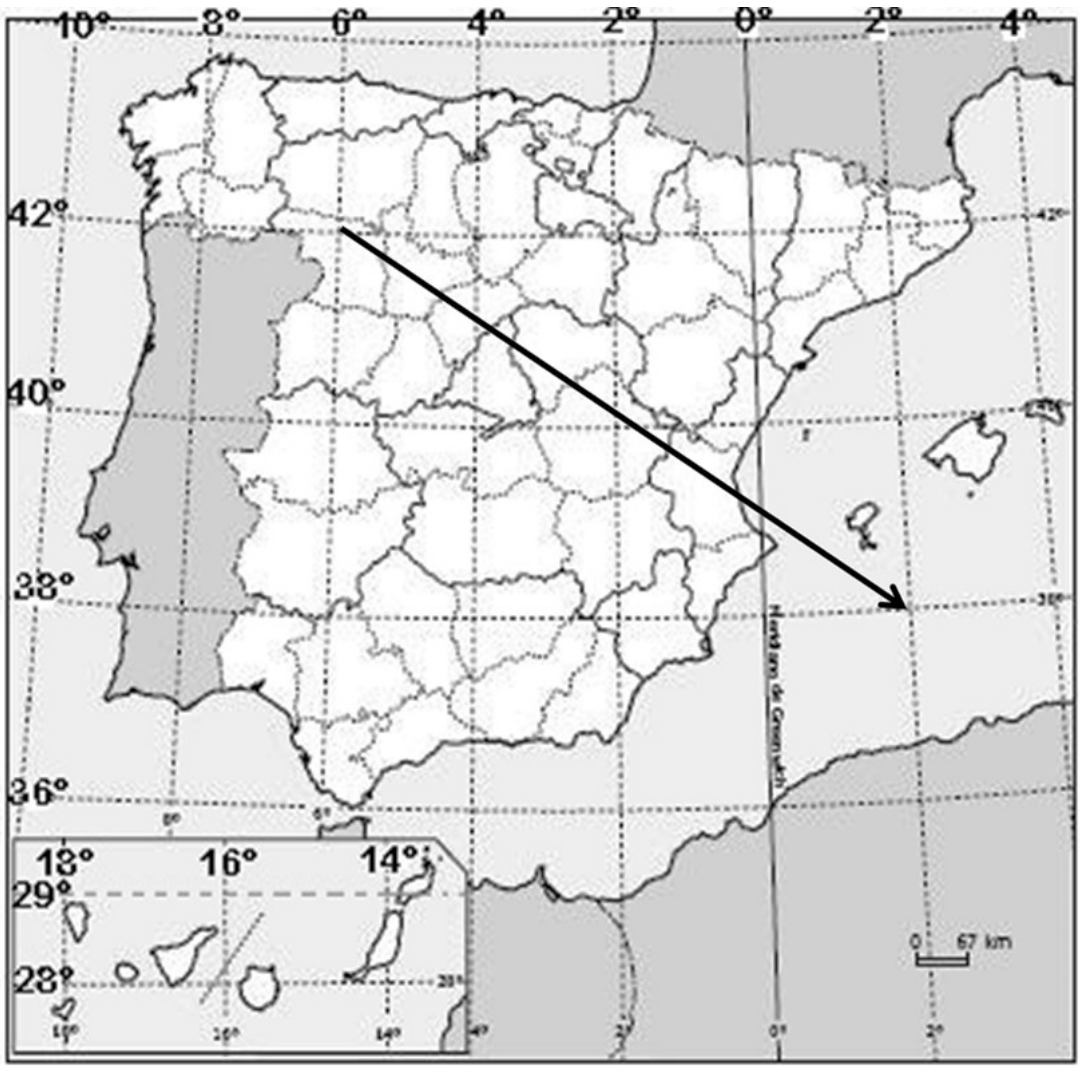

Mapa de localización: recorrido provincial/comunidades (capitales) y coordenadas geográficas. A partir del mapa, contesta las siguientes cuestiones:

3.1.- Vas a realizar un viaje por la Península Ibérica siguiendo la dirección y el sentido de la flecha trazada en el mapa. Indica el nombre de las provincias por las que pasas, las Comunidades Autónomas a las que pertenecen y las capitales de esas Comunidades Autónomas.

3.2.- ¿Cuántos grados de latitud y longitud, respectivamente, hay entre los extremos de la flecha? (Precisa tu respuesta especificando cuántos son de latitud y cuántos de longitud).

4.- Pregunta Práctica (1 punto cada cuestión) (Total: 2 puntos).

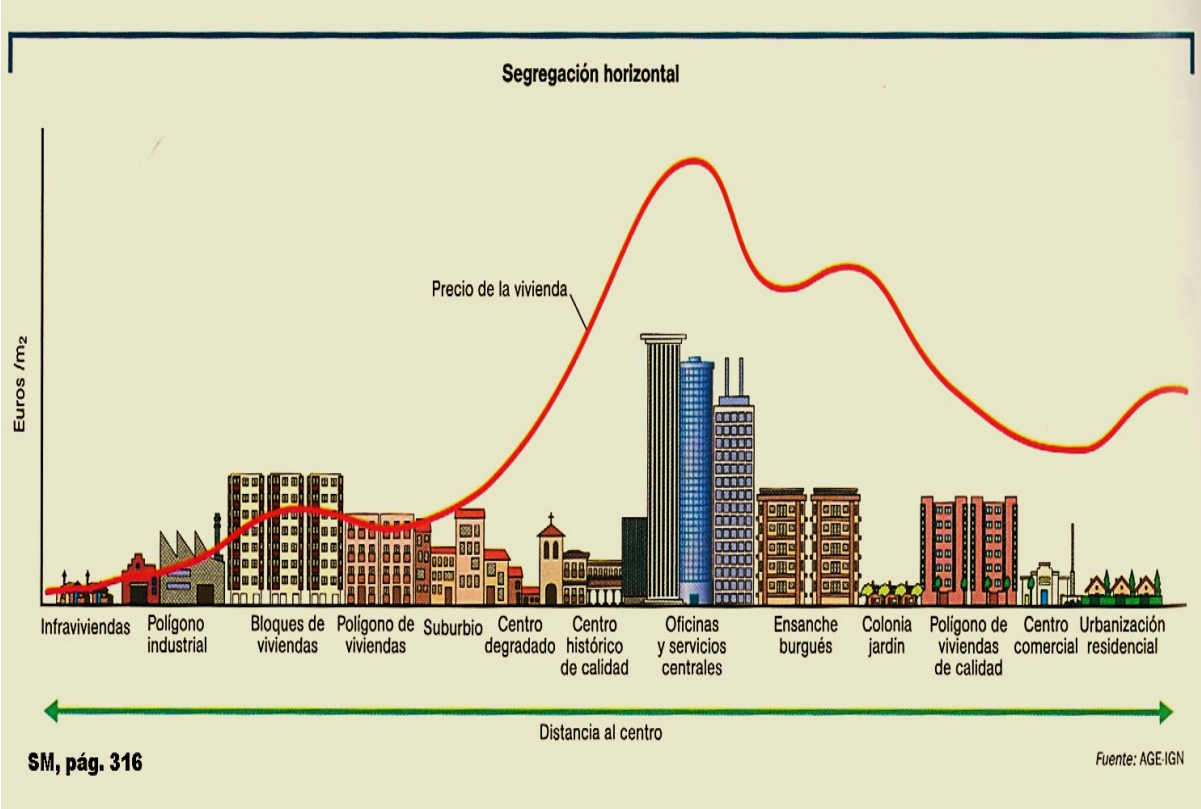

Perfil de una ciudad y precio de la vivienda. A la vista del gráfico, responde a las siguientes cuestiones:

4.1. Describe el gráfico (elementos representados en los ejes, fuente,…).

4.2. Analiza las correlaciones existentes entre la estructura urbana y el precio del suelo en las ciudades.