# EVALUACIÓN DE BACHILLERATO
# PARA EL ACCESO A LA UNIVERSIDAD (EBAU)
## FASE DE OPCIÓN
**CURSO 2018–2019**

| **MATERIA: GEOGRAFÍA** | **(3)** |
|---|---|
| **Convocatoria:** | **J U L I O** |

**Instrucciones: Debes elegir una de las dos opciones, A o B, y no puedes intercambiar las preguntas de cada una de ellas. Cada opción consta de cinco preguntas valoradas con dos puntos cada una.**

## OPCIÓN A

**1.- Conceptos clave (0,5 puntos cada uno). Contesta LOS CUATRO conceptos y ESCRIBE en TU HOJA DE EXAMEN SUS ENUNCIADOS así como LA CORRESPONDIENTE RESPUESTA CORRECTA de cada uno (Total: 2 puntos).**

**1.1.- Los Cabildos son:**
* Entidades territoriales que agrupan los municipios de una provincia.
* Corporaciones comarcales del Estado Español.
* Órganos de gobierno de cada una de las Islas Canarias.

**1.2.- En el Estado del Bienestar:**
* La protección social de los ciudadanos corresponde a la iniciativa privada mediante una serie de servicios y prestaciones.
* El Estado asume la responsabilidad del bienestar de los ciudadanos mediante una serie de servicios y prestaciones.
* Los países de la Unión Europea siguen una misma política social proporcionando una serie de servicios y prestaciones.

**1.3.- La globalización es:**
* Un proceso de privatización de la actividad económica que afecta a todos los sectores de la economía.
* Es un movimiento de unificación progresiva de sociedades y territorios con múltiples dimensiones.
* El desarrollo de las tecnologías de la información y comunicación para promover la interconexión.

**1.4.- ¿Qué es un municipio?**
* Es la división administrativa más pequeña y cercana a los ciudadanos de nuestro país.
* La institución responsable del mantenimiento de la red insular de carreteras.
* Es una reunión de ayuntamientos próximos que se benefician de servicios mancomunados.

**2.- Preguntas teóricas (2 puntos cada una) (Total: 4 puntos).**

**2.1.- La influencia de la actividad humana en el medio natural**
*Criterios de evaluación:* Identificar los problemas derivados de la interacción de las actividades humanas con el medio natural (ciñéndose a la alteración del relieve, la deforestación y la reducción de la biodiversidad) y señalar las principales políticas medioambientales.

**2.2.- Repercusiones positivas y negativas de la actividad turística en Canarias**
*Criterios de evaluación:* Se trata de señalar las repercusiones económicas, sociales y medioambientales, tanto positivas como negativas, asociadas a la actividad turística en Canarias.

**3.- Ejercicio práctico (1 punto cada cuestión) (Total: 2 puntos)**

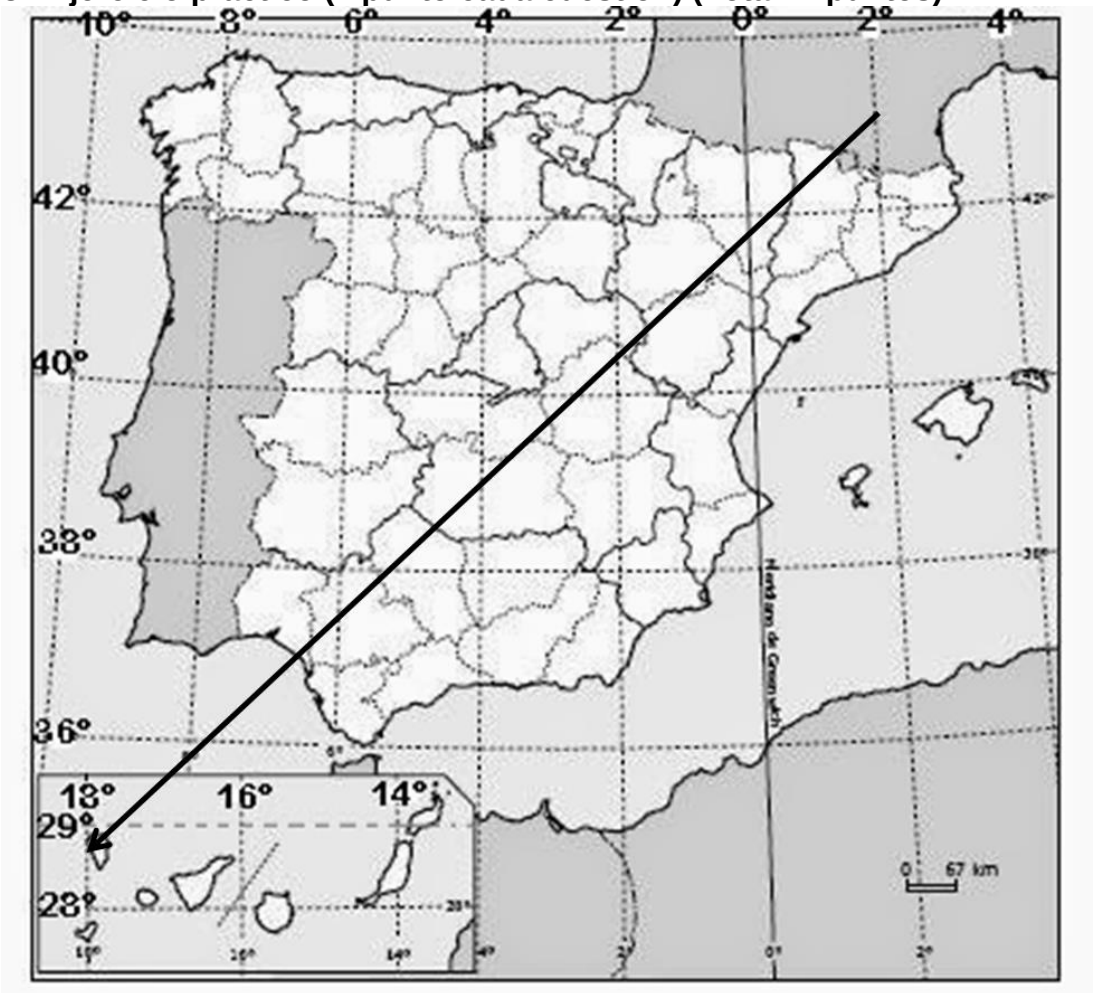


**Mapa de localización: recorrido provincial/comunidades (capitales) y coordenadas geográficas. A partir del mapa y siguiendo la dirección de la flecha, contesta a las siguientes cuestiones:**

**3.1.-** ¿Cuántos grados de longitud hay entre los extremos de la flecha representada? Anota también las longitudes de esos puntos.

**3.2.-** Siguiendo el orden definido por el sentido de la flecha, indica el nombre de las provincias españolas atravesadas por la misma, así como el de las Comunidades Autónomas a las que pertenecen y las capitales de esas Comunidades Autónomas.

**4.- Pregunta Práctica (1 punto cada cuestión) (Total: 2 puntos).**

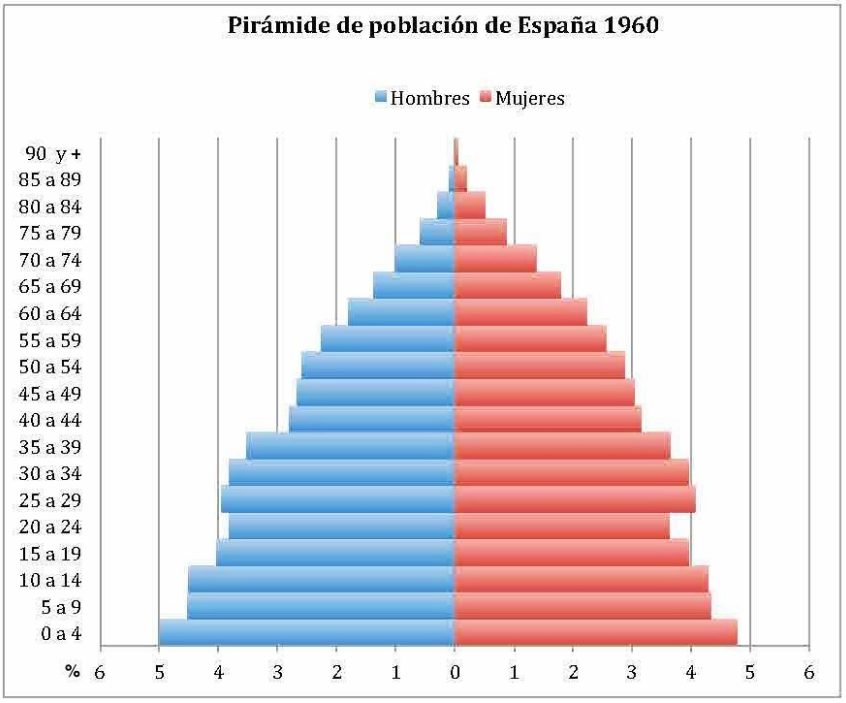


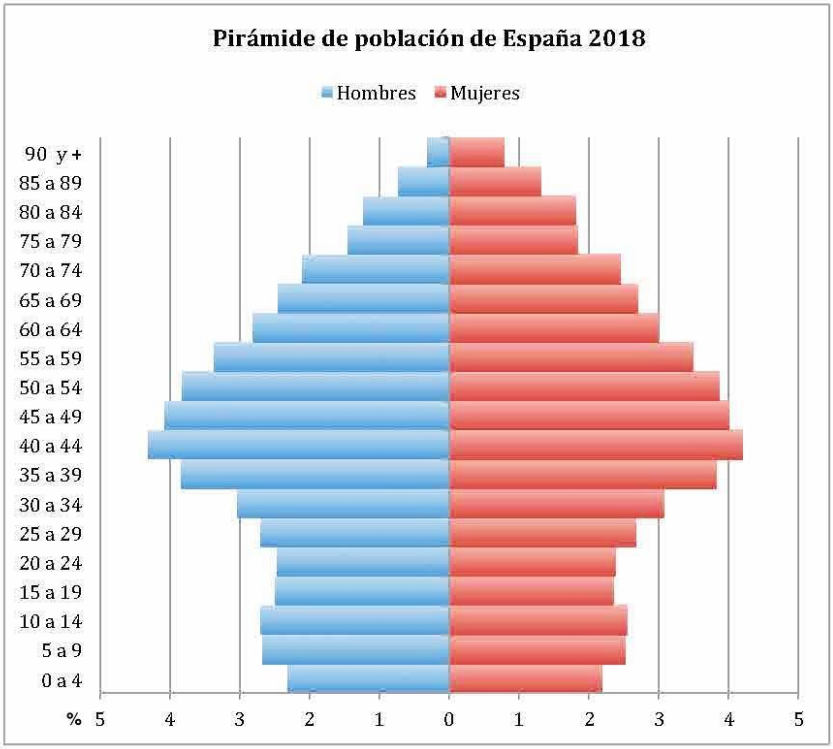


**Pirámide actual de población de España y comparación con la de 1960. Contesta las siguientes cuestiones:**

**4.1.-** Describe los cambios que ha experimentado la pirámide de la población española de 1960 a 1980.

**4.2.-** Tras observar con detalle las pirámides, comenta las principales características que puede tener la población española del futuro.

# EVALUACIÓN DE BACHILLERATO
# PARA EL ACCESO A LA UNIVERSIDAD (EBAU)
## FASE DE OPCIÓN
**CURSO 2018–2019**

| **MATERIA: GEOGRAFÍA** | **(3)** |
|---|---|
| **Convocatoria:** | **J U L I O** |

**Instrucciones: Debes elegir una de las dos opciones, A o B, y no puedes intercambiar las preguntas de cada una de ellas. Cada opción consta de cinco preguntas valoradas con dos puntos cada una.**

## OPCIÓN B

**1.- Conceptos clave (0,5 puntos cada uno). Contesta LOS CUATRO conceptos y ESCRIBE en TU HOJA DE EXAMEN SUS ENUNCIADOS así como LA CORRESPONDIENTE RESPUESTA CORRECTA de cada uno (Total: 2 puntos).**

**1.1.- El concepto de doble insularidad se refiere a:**
* Los criterios usados por la administración central para realizar el reparto de los presupuestos autonómicos entre las dos provincias canarias.
* Las desventajas y situaciones de agravio comparativo que padecen los habitantes de las islas no capitalinas con respecto a los que residen en Tenerife o Gran Canaria.
* Los sobrecostes sociales, políticos y económicos que sufren los residentes en Baleares y Canarias con respecto a los de las otras Comunidades Autónomas del Estado español.

**1.2.- Las ciudades autónomas son:**
* Una división administrativa peculiar de España que gestionan los Consells Insulares de Baleares.
* Unas ciudades dependientes de la Comunidad de Andalucía.
* Entes territoriales peculiares de carácter autonómico, pero sin capacidad legislativa.

**1.3.- El Índice de Desarrollo Humano es:**
* Un indicador socioeconómico que mide la renta per cápita de un país y su relación con el resto del mundo.
* Un indicador socioeconómico que mide la posición de los países según la esperanza de vida al nacer, el nivel de escolarización y el Producto Interior Bruto (PIB) por habitante.
* Un indicador socioeconómico que mide la posición de los países según el empleo vulnerable y las desigualdades del género.

**1.4.- ¿Qué función tiene Diputado del Común?**
* Defender los derechos fundamentales y libertades públicas de los ciudadanos en el ámbito de la Comunidad Autónoma de Canarias.
* Resolver los problemas que surgen entre los grupos parlamentarios en el Parlamento de Canarias.
* Mediar en los problemas comunes que surgen entre las autoridades municipales de Canarias.

**2.- Preguntas teóricas (2 puntos cada una) (Total: 4 puntos).**

**2.1.- Las aglomeraciones urbanas. El caso de Canarias**
*Criterios de evaluación:* Se trata de estudiar el sistema urbano canario, el tamaño de las ciudades, la distribución urbana y su jerarquía urbana.

**2.2.- Principales problemas del mundo rural**
*Criterios de evaluación:* Señalar los problemas demográficos, económicos y sociales, que afectan a la agricultura en España y exponer algunas medidas para buscar alternativas y revalorizar la actividad agraria.

**3.- Ejercicio práctico (0,5 puntos la primera cuestión y 1,5 la segunda) (Total: 2 puntos).**



http://geografiadebachillerato.wikispaces.com

**Clasificación de paisajes según los elementos dominantes, respondiendo a las siguientes cuestiones:**

**3.1.-** Clasifica el paisaje como natural o cultural (humanizado).

**3.2.-** Justifica la respuesta enumerando los elementos principales de uno u otro tipo que aparecen, en orden a su importancia.

**4.- Pregunta Práctica (1 punto cada cuestión) (Total: 2 puntos).**

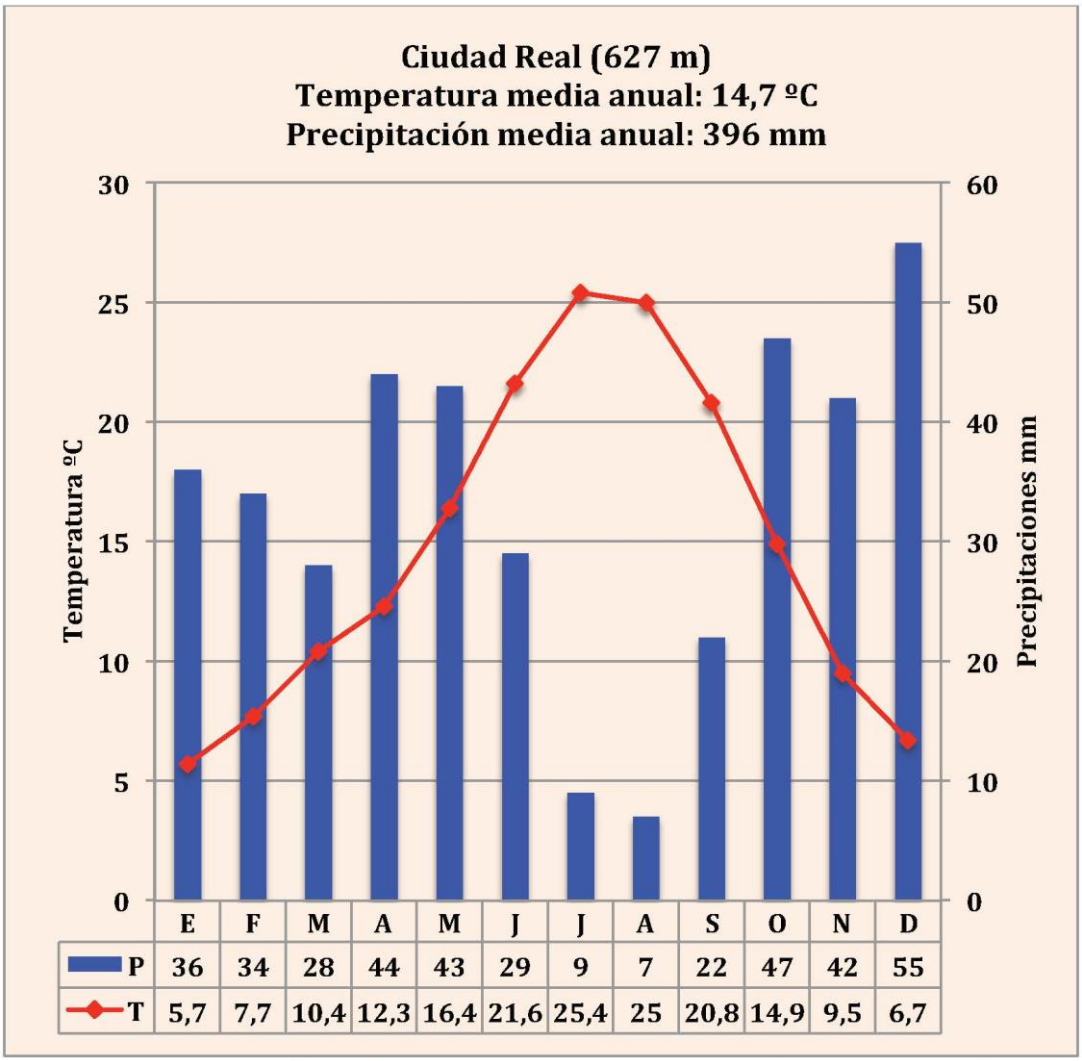


Fuente de datos: educaplus.org. Elaboración: Subcomisión EBAU Geografía

**Climograma de Ciudad Real. Responde a las siguientes cuestiones:**

**4.1.-** Describe la gráfica y comenta las principales características de las temperaturas (media anual, amplitud térmica y reparto estacional), las precipitaciones (precipitación media anual y reparto estacional) y de la aridez (meses secos).

**4.2.-** Identifica el tipo de clima y sus relaciones con el paisaje vegetal de la zona.