EVALUACIÓN DE BACHILLERATO
PARA EL ACCCESO A LA UNIVERSIDAD (EBAU)
FASE DE OPCIÓN

CURSO 2017–2018

MATERIA: GEOGRAFÍA	**(3)**
Convocatoria:	

Instrucciones: Debes elegir una de las dos opciones, A o B, y no puedes intercambiar las preguntas de cada una de ellas. Cada opción consta de cinco preguntas valoradas con dos puntos cada una.

OPCIÓN A

1.- Conceptos clave (0,5 puntos cada uno). Contesta los CUATRO conceptos y ESCRIBE, en tu hoja de examen, sus enunciados así como la correspondiente respuesta correcta de cada uno (Total: 2 puntos).

1.1.- El concepto de doble insularidad se refiere a:
* Los criterios usados por la administración central para realizar el reparto de los presupuestos autonómicos entre las dos provincias canarias.
* Las desventajas y situaciones de agravio comparativo que padecen los habitantes de las islas no capitalinas con respecto a los que residen en Tenerife o Gran Canaria.
* Los sobrecostes sociales, políticos y económicos que sufren los residentes en Baleares y Canarias con respecto a los de las otras Comunidades Autónomas del Estado español.

1.2.- ¿Qué es un municipio?
* Es la división administrativa más pequeña y cercana a los ciudadanos de nuestro país.
* La institución responsable del mantenimiento de la red insular de carreteras.
* Es una reunión de ayuntamientos próximos que se benefician de servicios mancomunados.

1.3.- El espacio de libre circulación de personas del Acuerdo Schengen afecta a:
* Únicamente los países que conforman la Unión Europea.
* Todos los países del continente europeo.
* Una mayoría de países de la Unión Europea y otros europeos que no forman parte de ella.

1.4.- Las ciudades autónomas son:
* Una división administrativa peculiar de España que gestionan los Consells Insulares de Baleares.
* Unas ciudades dependientes de la Comunidad de Andalucía.
* Entes territoriales peculiares de carácter autonómico, pero sin capacidad legislativa.

2.- Preguntas teóricas (2 puntos cada una) (Total: 4 puntos).

2.1.- Los recursos hídricos de Canarias.
Criterios de evaluación: Se tiene que explicar el origen (aguas superficiales y subterráneas) y el aprovechamiento de los recursos hídricos canarios (las obras hidráulicas y las medidas para solucionar los déficits -depuradoras y desaladoras-).

2.2.- El futuro de la población española.
Criterios de evaluación: Se deben señalar brevemente las tendencias más probables que pueden experimentar el movimiento natural y los movimientos migratorios.

3.- Ejercicio práctico. (1 punto cada cuestión) (Total: 2 puntos).

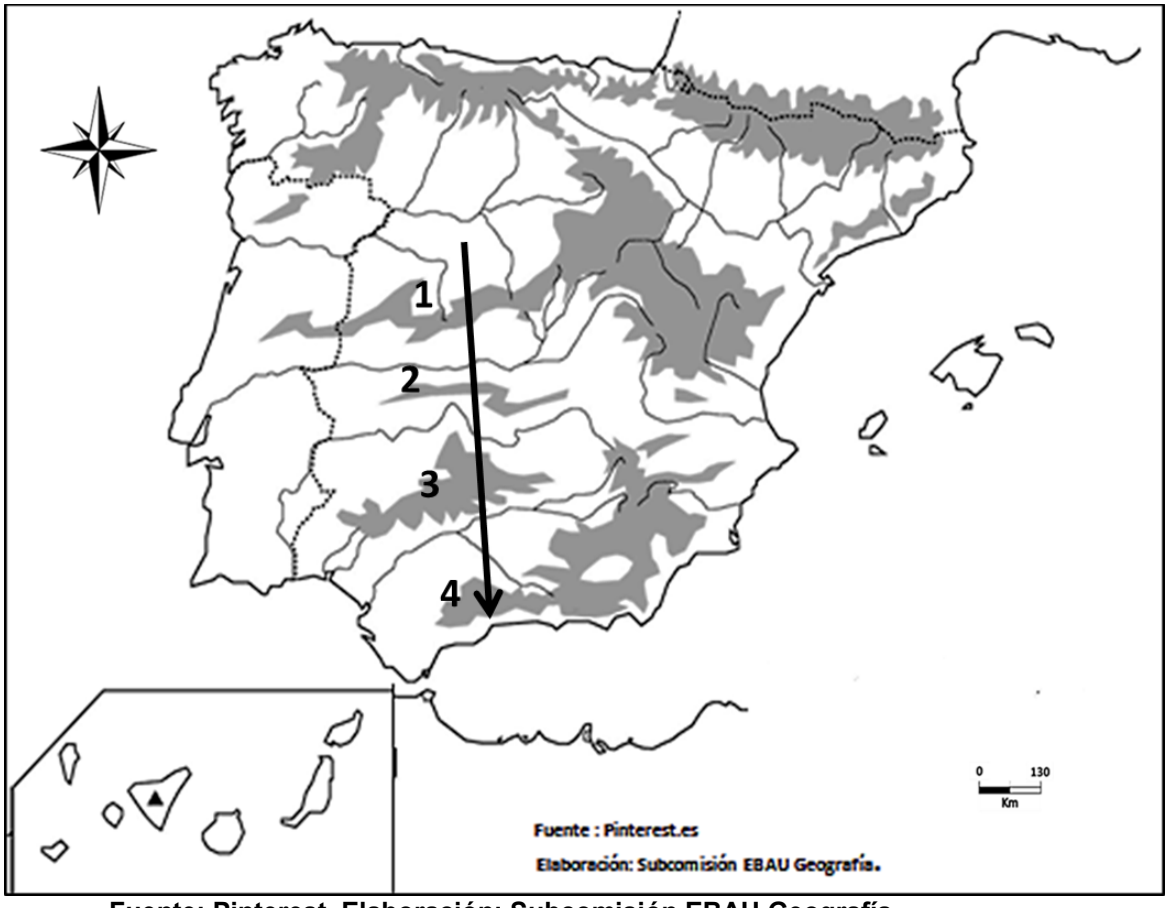

Fuente: Pinterest. Elaboración: Subcomisión EBAU Geografía

Mapa físico: identificación y localización de unidades de relieve. A partir del mapa, contesta las siguientes cuestiones:

3.1.- Escribe los nombres de las unidades del relieve montañoso enumeradas y atravesadas por la flecha, citándolas en el orden propuesto.

3.2.- Cita al menos dos de las grandes alineaciones montañosas (cordillera, sierra, montes,..) que delimitan la depresión del Ebro.

4.- Pregunta Práctica (1 punto cada cuestión) (Total: 2 puntos).



Fuente: http//age.ing.csic.es

Paisaje turístico de Patalavaca. Responde a las siguientes cuestiones:

4.1.- Describe la imagen, comentando los usos y las características de la ocupación del territorio.

4.2.- Señala las características de este tipo de turismo.

EVALUACIÓN DE BACHILLERATO
PARA EL ACCCESO A LA UNIVERSIDAD (EBAU)
FASE DE OPCIÓN
CURSO 2017–2018

MATERIA: GEOGRAFÍA	**(3)**
Convocatoria:	

Instrucciones: Debes elegir una de las dos opciones, A o B, y no puedes intercambiar las preguntas de cada una de ellas. Cada opción consta de cinco preguntas valoradas con dos puntos cada una.

OPCIÓN B

1.- Conceptos clave (0,5 puntos cada uno). Contesta los CUATRO conceptos y ESCRIBE, en tu hoja de examen, sus enunciados así como la correspondiente respuesta correcta de cada uno (Total: 2 puntos).

1.1.- Para conseguir la Triple Paridad se debe contemplar que:

* Ambas provincias tengan el mismo número de diputados; Tenerife y Gran Canaria tengan igual representación; y que la suma de los representantes de las islas no capitalinas de cada provincia sea igual al de las capitalinas.
* Cada isla tenga el mismo número de representantes en el Parlamento (10 por isla), para respetar la paridad entre ellas con independencia del reparto poblacional.
* Las islas capitalinas (Tenerife y Gran Canaria) tengan el triple de representantes que las otras, en proporción a las diferencias de población existentes entre las mismas.

1.2.- Los Territorios Forales son entidades territoriales existentes en:

* Cataluña, País Vasco y Galicia, en las que el idioma español comparte oficialidad con otras lenguas locales.
* País Vasco y Navarra, a las que se reconoce un régimen de financiación autonómico distinto al de las otras comunidades.
* Todas las comunidades autonómicas para gestionar las masas forestales del Estado.

1.3.- En el Estado del Bienestar:

* La protección social de los ciudadanos corresponde a la iniciativa privada mediante una serie de servicios y prestaciones.
* El Estado asume la responsabilidad del bienestar de los ciudadanos mediante una serie de servicios y prestaciones.
* Los países de la Unión Europea aplican una misma política social proporcionando una serie de servicios y prestaciones.

1.4.- Los Cabildos son:

* Entidades territoriales que agrupan a los municipios de una provincia.
* Instituciones cuyo ámbito de actuación es el provincial.
* Instituciones territoriales canarias cuyo ámbito de gestión y administración es la isla.

2.- Preguntas teóricas (2 puntos cada una) (Total: 4 puntos).

2.1.- Las aglomeraciones urbanas. El caso de Canarias.
Criterios de evaluación: Se trata de explicar el sistema urbano canario, analizando el tamaño demográfico de las ciudades y su distribución así como la jerarquía urbana.

2.2.- Características de la industria española.
Criterios de evaluación: Hay que señalar la existencia de diferentes sectores industriales así como su peso y localización.

3.- Ejercicio práctico. (1 punto cada cuestión) (Total: 2 puntos).

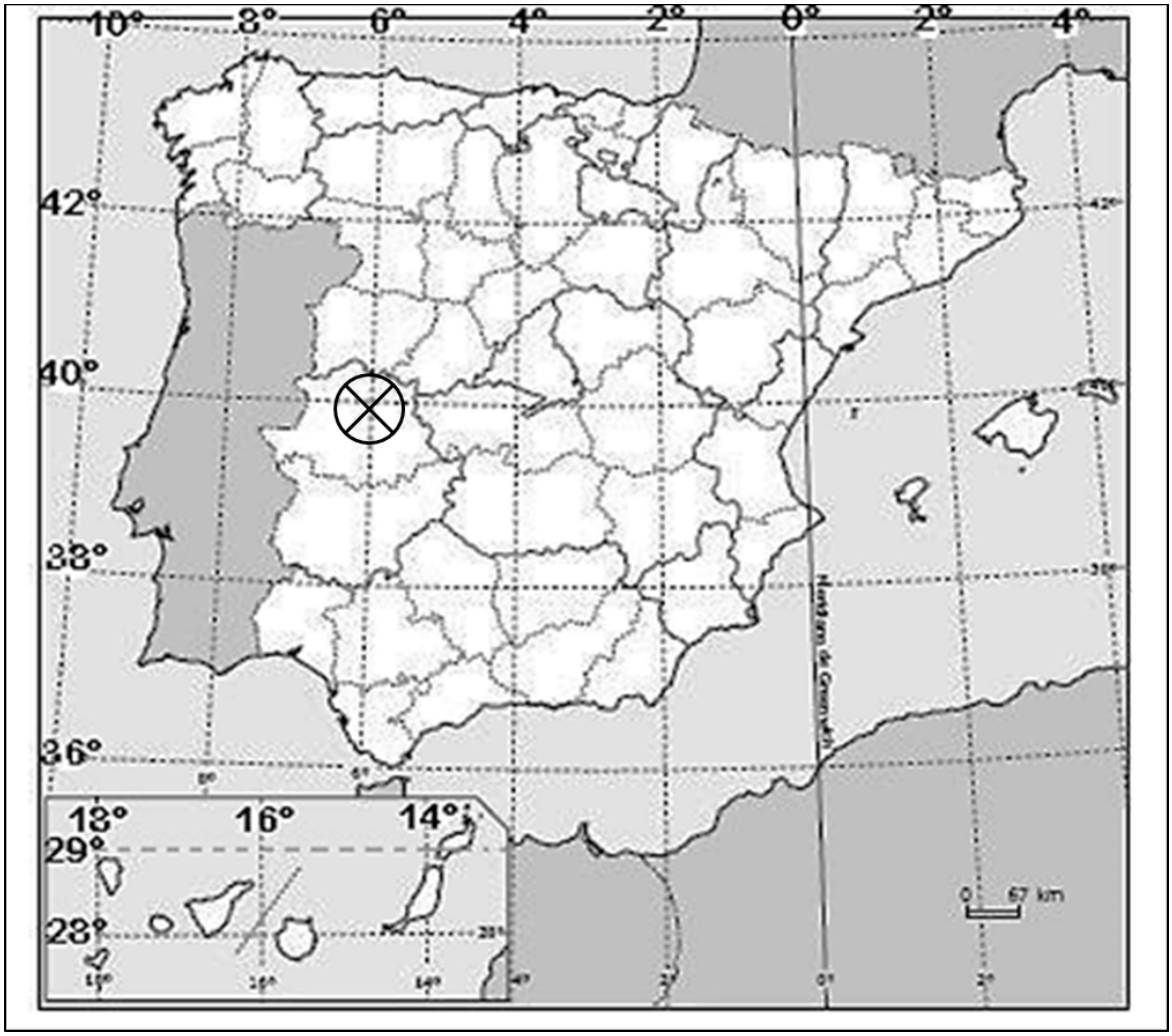

Mapa de localización: recorrido provincial/comunidades (capitales) y coordenadas geográficas. A la vista del mapa, contesta las siguientes cuestiones:

3.1.- Cita por orden -de norte a sur- los nombres de las provincias españolas que hacen frontera con Portugal. Indica la comunidad autónoma a la que pertenece cada una, así como los nombres de sus capitales autonómicas.

3.2.- ¿Cuáles serían las coordenadas geográficas del punto situado en el centro del círculo?

4.- Pregunta Práctica (1 punto cada cuestión) (Total: 2 puntos).

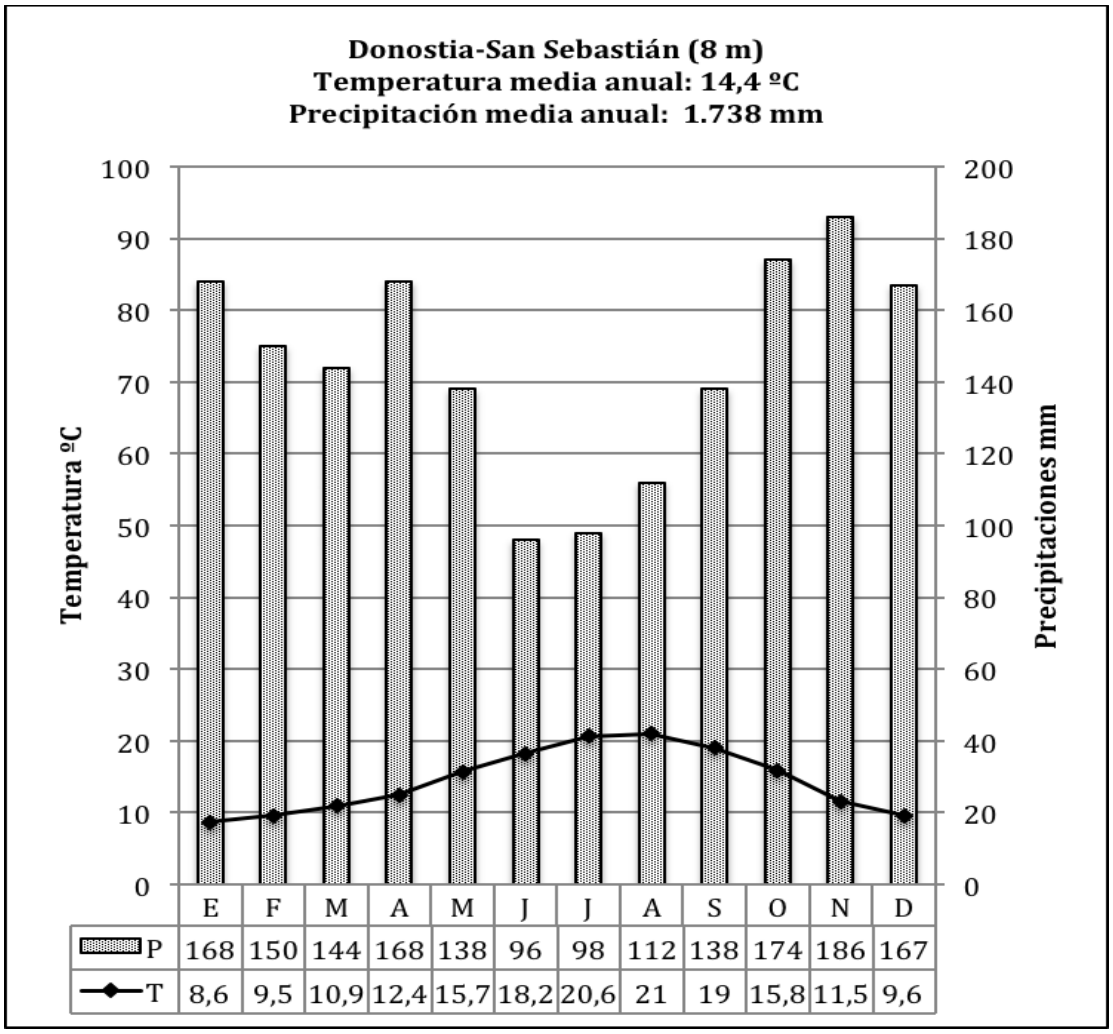

	E	F	M	A	M	J	J	A	S	O	N	D
P	168	150	144	168	138	96	98	112	138	174	186	167
T	8,6	9,5	10,9	12,4	15,7	18,2	20,6	21	19	15,8	11,5	9,6

Fuente de datos: educaplus.org. Elaboración: Subcomisión EBAU Geografía

Climograma de Donostia-San Sebastián. Responde a las siguientes cuestiones:

4.1.- Describe las principales características de las temperaturas (media anual, amplitud térmica y reparto estacional), las precipitaciones (precipitación media anual y reparto estacional) y de la aridez (meses secos).

4.2.- Identifica el tipo de clima y sus relaciones con el paisaje vegetal de la zona.